# Geometrik Şekiller

Adı Soyadı: _____ Sınıfı: _____ Numarası: _____ Tarih: _____

## A. Geometrik şekillerin adlarını, kenar ve köşe sayılarını yazınız.

| Şekil | Şeklin adı | Kenar sayısı | Köşe sayısı |
|---|---|---|---|
|  | | | |
|  | | | |
|  | | | |
|  | | | |
|  | | | |
|  | | | |

Doğru: _____ Yanlış: _____



ogrenoyna.com

# Geometrik Şekiller

Adı Soyadı: _____ Sınıfı: _____ Numarası: _____ Tarih: _____

**B. Geometrik şekillerin adlarını, kenar ve köşe sayılarını yazınız.**

| Şekil | Şeklin adı | Kenar sayısı | Köşe sayısı |
|---|---|---|---|
|  | | | |
|  | | | |
|  | | | |
|  | | | |
|  | | | |
|  | | | |

Doğru: _____ Yanlış: _____



ogrenoyna.com

# Geometrik Şekiller – Cevap Anahtarı

Adı Soyadı: _____ Sınıfı: _____ Numarası: _____ Tarih: _____

## A. Geometrik şekillerin adlarını, kenar ve köşe sayılarını yazınız.

| Şekil | Şeklin adı | Kenar sayısı | Köşe sayısı |
|---|---|---|---|
|  | Kare | 4 | 4 |
|  | Dikdörtgen | 4 | 4 |
|  | Üçgen | 3 | 3 |
|  | Daire | 0 | 0 |
|  | Beşgen | 5 | 5 |
|  | Altıgen | 6 | 6 |

Doğru: _____ Yanlış: _____



ogrenoyna.com

# Geometrik Şekiller – Cevap Anahtarı

Adı Soyadı: _____ Sınıfı: _____ Numarası: _____ Tarih: _____

**B. Geometrik şekillerin adlarını, kenar ve köşe sayılarını yazınız.**

| Şekil | Şeklin adı | Kenar sayısı | Köşe sayısı |
|---|---|---|---|
|  | Kare | 4 | 4 |
|  | Dikdörtgen | 4 | 4 |
|  | Üçgen | 3 | 3 |
|  | Daire | 0 | 0 |
|  | Beşgen | 5 | 5 |
|  | Altıgen | 6 | 6 |

**Doğru:** _____ **Yanlış:** _____



ogrenoyna.com